玉石混交プレース

例題

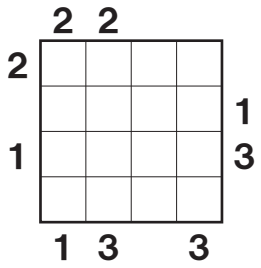

⇒

解答

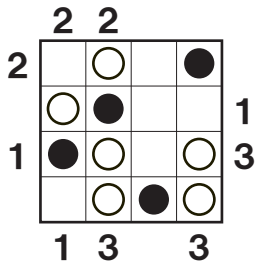

≪ルール≫

①以下のルールにしたがって盤面に黒丸（玉）と白丸（石）を配置してください。
②黒丸は各行、各列に１つずつ入ります。白丸はいくつ入るかわかりません。
③周囲の数字は、列をその方向から見たとき何個目の丸が黒かをあらわします。

1

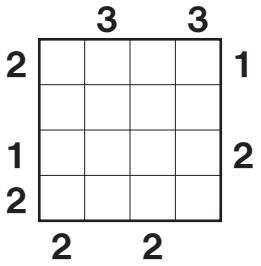

2

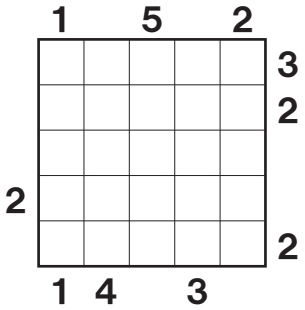

3

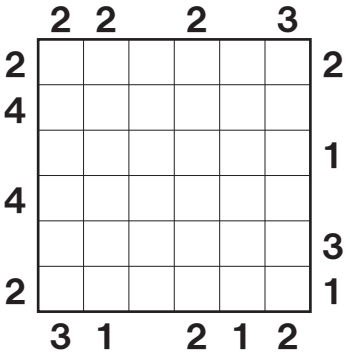

4

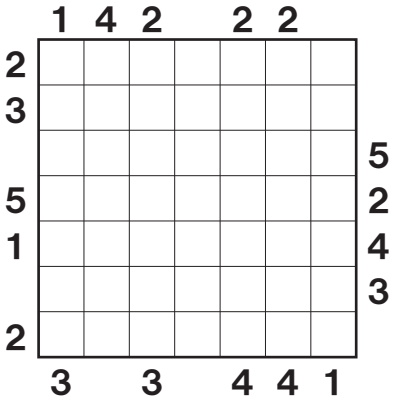
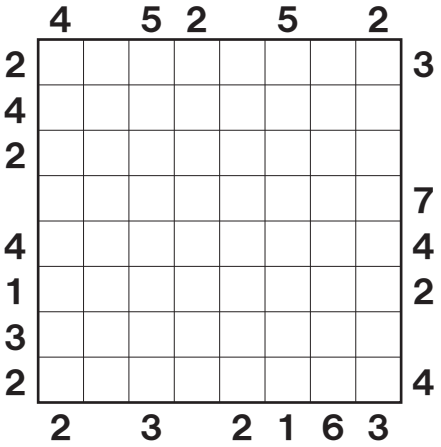
5